$7 + 9 = ___$

1. Wir rechnen nicht gleich plus 9, sondern machen zwei kleinere Plusaufgaben daraus.

2. Schau dir erstmal nur die 7 an. Kennst du die verliebte Zahl?

3. klar: $7 + 3 = 10$
Wir wollten aber doch plus 9 rechnen?
Da fehlen doch noch 6. Wir haben erst 3 plus gerechnet.

4. Die 10 war ja auch erst unser <u>Zwischenergebnis</u>.
Von der 10 aus geht es weiter:
$10 + 6 = 16$ also ist $7 + 9 = 16$



$7 + 9 = ___$

$7 + \underline{3} + \underline{6} = ___$

5. Schau es dir mal auf dem Zwanzigerfeld an.
Erst plus 3, dann ist der Zehner voll.
Dann noch plus 6.
Wir haben plus 9 in zwei kleinen Schritten gerechnet. So geht es leichter.



Los geht's!



$8 + 6 = ___$

$8 + __ + __ = ___$

$5 + 7 = ___$

$5 + __ + __ = ___$

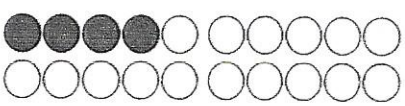

$4 + 8 = ___$

$4 + __ + __ = ___$